ಕಾಮನ ಬಿಲ್ಲು

A ಕೆಳಗಿನ ಎರಡು ಚಿತ್ರಗಳಲ್ಲಿರುವ ವ್ಯತ್ಯಾಸ ಗುರುತಿಸಿ

ಈ ಎರಡು ಚಿತ್ರಗಳಲ್ಲಿ ಕನಿಷ್ಠ ಆರು ವ್ಯತ್ಯಾಸಗಳಿವೆ. ಗುರುತಿಸಿ ನೋಡೋಣ?



B

ಇಲ್ಲಿ ನೀಡಿರುವ ಕೋಡ್ ಅನ್ನು ಬಳಸಿ ಈ ಚಿತ್ರಕ್ಕೆ ಬಣ್ಣ ಹಾಕಿ

O- ಕಂದು ಬಣ್ಣ; **x-** ಹಳದಿ ಬಣ್ಣ ಮತ್ತು **T-** ನೇರಳೆಬಣ್ಣ.



C ಬುದ್ದಿಗೆ ಗುದ್ದು

ಎಕ್ಸ್, ವೈ ಮತ್ತು ಝಡ್- ಈ ಮೂರು ವೃತ್ತಗಳಲ್ಲಿ ಒಂದು ವೃತ್ತವು ಯು-ವಿ ಗೆರೆಯ ಉದ್ದದಷ್ಟೇ ಅಳತೆಯನ್ನು ಹೊಂದಿದೆ. ಅದು ಯಾವುದು?

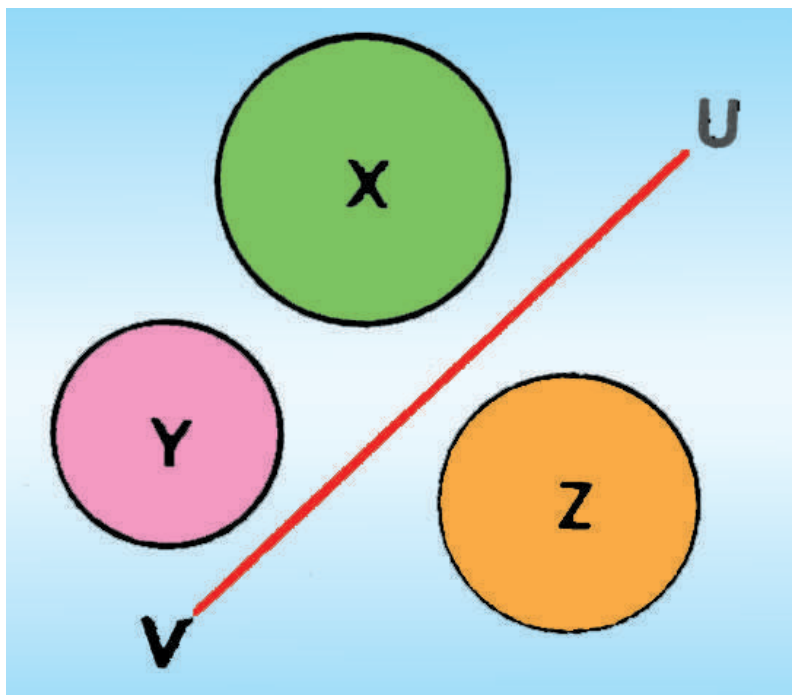

D

ಯಾರು ಅದೃಷ್ಟಶಾಲಿಗಳು?



ಎ, ಬಿ, ಸಿ ಈ ಮೂರು ಮೀನುಗಾರರಲ್ಲಿ ಯಾರ ಬಲೆಗೆ ಈ ಮೀನು ಬಿದ್ದಿದೆ..? ಯಾರು ಅದೃಷ್ಟಶಾಲಿಗಳು?

ಉತ್ತರಗಳು

ಎ.) ಆನೆಯ ದಂತ, ಜಿಂಕೆಯ ಕಿವಿ, ಟೋಪಿಯಲ್ಲಿ ಗೆರೆ, ಮೊಲದ ಹಲ್ಲು, ಬಿಲದಲ್ಲಿ ಕಣ್ಣುಗಳು, ಮರದ ರೆಂಬೆ.

ಸಿ.) ವೃತ್ತ ‘ವೈ’

ಡಿ.) ಬಿ.

386 / © 2010 Amrita Bharati, Bharatiya Vidya Bhavan