# ಕಾಮನ ಬಿಲ್ಲು

## A ಆಕೃತಿ ರಚಿಸಿ

ಈ ಕೆಳಗೆ ಆರು ವಿವಿಧ ಆಕಾರಗಳ ಆಕೃತಿಗಳನ್ನು ಕೊಡಲಾಗಿದೆ. ಎರಡೆರಡು ಆಕೃತಿಗಳನ್ನು ತೆಗೆದು ಕೊಂಡು ಒಂದು ಜೋಡಿ ಮಾಡಿ ಸೇರಿಸಿ ಮೂರು ಒಂದೇ ಆಕಾರ ಮತ್ತು ಗಾತ್ರದ ಆಕೃತಿ ರಚಿಸಿ

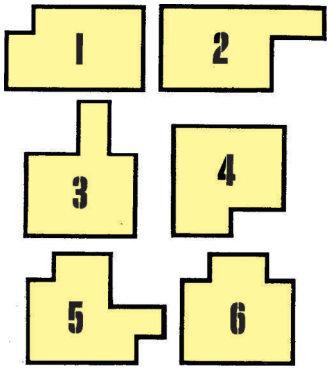


## B ಜಾನಪದ ವೈವಿಧ್ಯ

ಭಾರತದ ಜಾನಪದ ಮತ್ತು ನೃತ್ಯ ಕಲೆ ಅತ್ಯಂತ ಶ್ರೀಮಂತವಾದದ್ದು. ಇಲ್ಲಿ ಐದು ರಾಜ್ಯಗಳ ಜಾನಪದ ಕಲೆಯ ಚಿತ್ರ ಕೊಡಲಾಗಿದೆ. ಅವು ಯಾವ್ಯಾವುದು ಎಂಬುದನ್ನು ಗುರುತಿಸಬಲ್ಲಿರಾ?

1 ಮಧ್ಯಪ್ರದೇಶ

2 ಕೇರಳ



3 ಕರ್ನಾಟಕ



5 ಮಹಾರಾಷ್ಟ್ರ

4 ತಮಿಳನಾಡು



## C ಈ ಪ್ರಶ್ನೆಗೆ ಉತ್ತರಿಸುವಿರಾ?

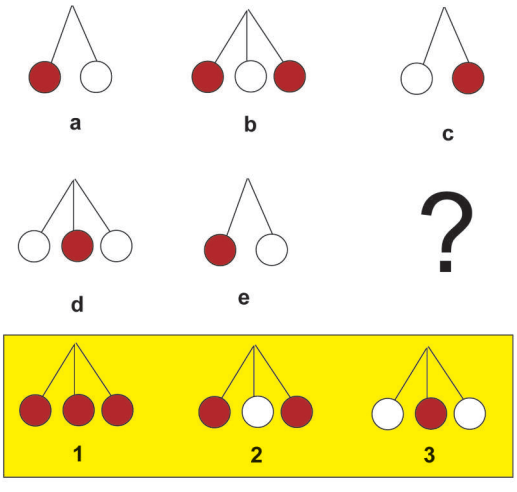


## D ಅಂಕಿ ಆಟ

ಒಂದು ಮತ್ತು ಒಂಭತ್ತು ಅಂಕೆಗಳ ನಡುವಿನ ಸಂಖ್ಯೆಗಳನ್ನು ಬಳಸಿ ಇಲ್ಲಿ ಖಾಲಿ ಬಿಟ್ಟಿರುವ ಚೌಕಗಳನ್ನು ತುಂಬಿರಿ. ಇದು ಮೇಲಿನಿಂದ ಕೆಳಗೆ, ಎಡದಿಂದ ಬಲಕ್ಕೆ ಹೇಗೆ ಲೆಕ್ಕ ಹಾಕಿದರೂ ಒಂದೇ ಸಂಖ್ಯೆಯನ್ನು ಸೂಚಿಸುವಂತಿರಬೇಕು.

| | | |
|---|---|---|
| 6 | | 8 |
| | | |
| 2 | | 4 |

### ಉತ್ತರಗಳು

ಅ.)……

ಆ.) 1. ಮಾಂಡಾಲಿನ್
2. ಕೂಚಿಪುಡಿಯಂ
3. ಯಕ್ಷಗಾನ
4. ಕೋಲಾಟಮ್
5. ಕಲಾಗಾಲ್

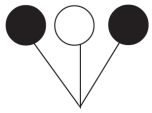

D.

| | | |
|---|---|---|
| 6 | 1 | 8 |
| 7 | 5 | 3 |
| 2 | 9 | 4 |

325 / © 2009 Amrita Bharati, Bharatiya Vidya Bhavan