ಕಾಮನ ಬಿಲ್ಲು

A ಗುಂಪಿಗೆ ಸೇರದ್ದನ್ನು ಹೊರ ಹಾಕಿ

ಚಿತ್ರದಲ್ಲಿ ಒಂದೇ ತರ ಇರುವ ಎರಡೆರಡು ಚಿತ್ರಗಳನ್ನು ಜೋಡಿ ಮಾಡಿ. ಗುಂಪಿಗೆ ಸೇರದ್ದನ್ನು ಹೊರಗೆ ಹಾಕಿ.

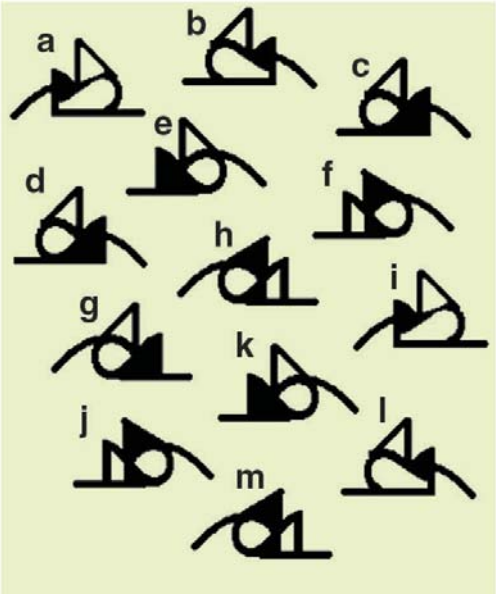

B ಸಂಖ್ಯಾ ಸ್ವಾರಸ್ಯ

ಬಿಟ್ಟು ಹೋದ ಅಂಕೆ ಯಾವುದು..?

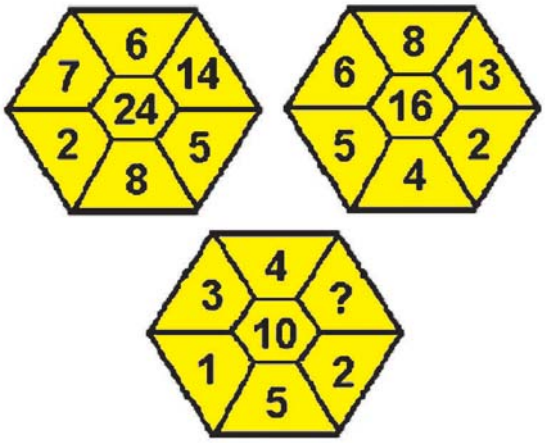

C ಥಟ್ ಅಂತ ಹೇಳಿ..!

ಕ್ರಮವಾಗಿ 11 ಲೀಟರ್, 5 ಲೀಟರ್ ಮತ್ತು 14 ಲೀಟರ್ ಸಾಮರ್ಥ್ಯದ ಮೂರು ಲಾಟೀನುಗಳಲ್ಲಿ ಮೊದಲ ಎರಡು ಲಾಟೀನುಗಳಿಗೆ ಎಣ್ಣೆ ತುಂಬಿಸಲಾಗಿದ್ದು, ಕೊನೆಯದನ್ನು ಖಾಲಿ ಬಿಡಲಾಗಿದೆ. ಈ ಲಾಟೀನನ್ನು ಉರಿಸಬೇಕಾದರೆ ಕನಿಷ್ಠ 8 ಲೀಟರ್ ಎಣ್ಣೆ ಯಾದರೂ ಬೇಕು. ಆದರೆ ಅನಿಲ್ ಈ ಮೂರು ಲಾಟೀನುಗಳಲ್ಲಿ ಎರಡು ಲಾಟೀನುಗಳಿಗೆ ಎಣ್ಣೆ ತುಂಬಿಸದೆಯೇ ಉರಿಸಿದ್ದಾನೆ, ಇದು ಹೇಗೆ ಸಾಧ್ಯ..?



D ಬುದ್ಧಿಗೆ ಗುದ್ದು

ಒಬ್ಬ ಹಸುವನ್ನು ಹೊಡೆದುಕೊಂಡು ಹೋಗುತ್ತಿದ್ದ. ಮತ್ತೊಬ್ಬ ಅವನನ್ನು ಕೇಳಿದ. ನಿನ್ನ ಬಳಿ ಎಷ್ಟು ಹಸುಗಳಿವೆ? ಆಗ ಅವನು ಉತ್ತರಿಸಿದ- ಸಾಲಿನಲ್ಲಿ ಹೋಗುವಾಗ ಎರಡು ಹಸುಗಳು ಮುಂದೆ ನಡೆಯುತ್ತವೆ; ಎರಡು ಹಸುಗಳು ಹಿಂದಿನಿಂದ ಬರುತ್ತವೆ. ಒಂದು ಮಧ್ಯೆ ಇರುತ್ತದೆ. ಹಾಗಾದರೆ ಎಷ್ಟು ಹಸುಗಳಾದವು ನೀವೇ ಲೆಕ್ಕ ಹಾಕಿ..!

ಉತ್ತರಗಳು

೧.) ಅದು
ಕೂಡಾದ ಚಕ್ರದಲ್ಲಿ 24 ಅಂದರೆ 7 ಕೂಡಿದರೆ 5=12 ಇದರ ಮಧ್ಯದ ಚಕ್ರದಲ್ಲಿ 6 ಮತ್ತು 8 ಗುಣಿಸಿ ಬಂದ ಮೊತ್ತ ಅದರ ಮಧ್ಯದ ಚಕ್ರದಲ್ಲಿ 14ರಿಂದ 2ನ್ನು ಕಳೆದರೆ ಬಂದ ಮಧ್ಯ ಚಕ್ರದ ಕೊನೆಯಲ್ಲಿ ಬರೆಯಬೇಕು ಕೂಡಾ ಒಂದು ಉಳಿದ ಚಕ್ರದಲ್ಲಿನ ಅಂಕಿಯನ್ನು ಬೆಳೆ ಹಾಕಿ ಕೂಡಾ.

೨) 11 ಲೀ, 5 ಲೀ, 13 ಲೀಟರ್
11 5 0 (1 ಮತ್ತು 2 ಖಾಲಿ, 3 ಭರ್ತಿ)
11 0 5 (2 ರಿಂದ 3ಕ್ಕೆ ಎರಡು ಹಾಕಿ)
3 0 13 (1ರಿಂದ 3ಕ್ಕೆ ಎರಡು ಹಾಕಿ)
3 5 8 (3ರಿಂದ 2ಕ್ಕೆ ಎರಡು ಹಾಕಿ)
8 0 8 (2ರಿಂದ ಎರಡು 1ಕ್ಕೆ ಹಾಕಿ)

೩. ಮೂಗು

೫.) ಚಕ್ರ ೫.
ಕೂಡಾಗ ಚಕ್ರದಲ್ಲಿರುವ ೨-೩, ೩-೨ಕ್ಕೆ ೫-೬, ೩-೯ ಮತ್ತು ೨ ಎಣಿಸಿ.

374 / © 2010 Amrita Bharati, Bharatiya Vidya Bhavan