ಕಾಮನ ಬಿಲ್ಲು

A ಪ್ಯಾಚ್ ಮ್ಯಾಚ್

ಕೆಳಗಿನ ಜಾರ್ ಒಡೆದು ಹೋಗಿದೆ. ಈಗ ಮೇಲಿನ ಜಾರ್ ನಂತೆಯೇ ಇದನ್ನು ಜೋಡಿಸಬೇಕು. ಅದು ಇಡೀ ಇರುವ ಜಾರ್ ತರನೇ ಇರಬೇಕು. ಪ್ರಯತ್ನಿಸಿ ನೋಡೋಣ.

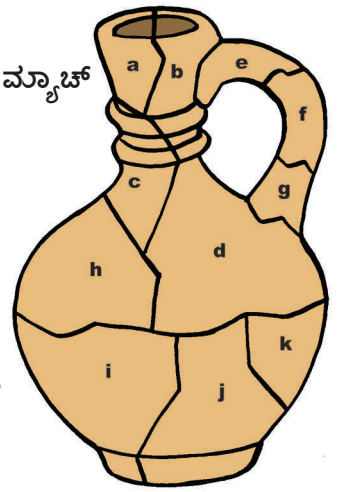

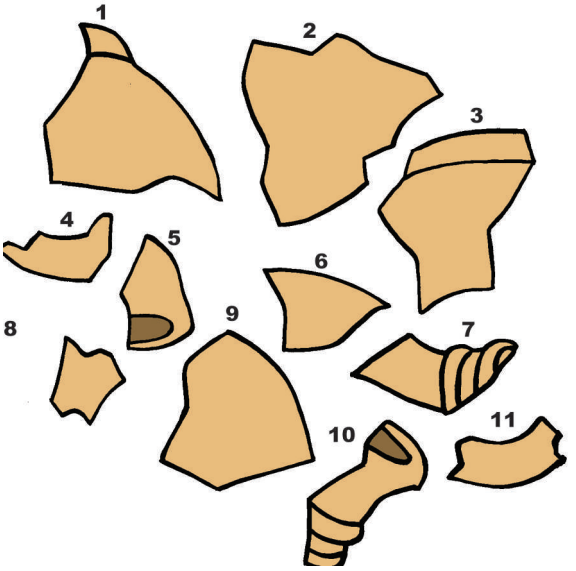

B ವ್ಯತ್ಯಾಸ ಗುರುತಿಸಿ

ಕೆಳಗಿನ ಎರಡು ಚಿತ್ರಗಳ ನಡುವಿನ ವ್ಯತ್ಯಾಸ ಗುರುತಿಸಿ.



C ಬುದ್ಧಿಗೆ ಗುದ್ದು

ಗಣಿತದ ಯಾವ ಚಿಹ್ನೆಯನ್ನು ಬಳಸಿದರೆ ಅಂಕೆ 5, ಅಂಕೆ 9 ರಿಂದ ದೊಡ್ಡದು ಎಂಬುದನ್ನು ಸೂಚಿಸುತ್ತದೆ..?

ಉ.) ⟶



ಸ.) ಮತ್ತಾಂಗಿ ಬಂದು. ನೀವು ಮೆಚ್ಚಿ ಹೆಚ್ಚು 9 ಬಿಡಿದ ಅದು 5.9 ಅಗಿತ್ತೆ ಮ. ಅಗ 5 ಅಂಕೆ 9 ರಿಂದ ದೊಡ್ಡ ಅಂಕೆ ಅಗುತ್ತದೆ.

ಎ.)1-ಬ; 2-ಡಿ; 3-ಸಿ; 4-ಇ; 5- ಎ; 6- ಕೆ; 7- ಸ; 8-ಜಿ; 9- ಎಫ್; 10- ಜ; 11-ಎಚ್

427 / © 2011 Amrita Bharati, Bharatiya Vidya Bhavan