ಕಾಮನ ಬಿಲ್ಲು

A ಬುದ್ಧಿಗೆ ಗುದ್ದು

0123456789... ಸೊನ್ನೆಯಿಂದ ಒಂಬತ್ತವರೆಗಿನ ಎಲ್ಲ ಅಂಕೆಗಳನ್ನು ಕೂಡಿಸಿದರೆ ಮೊತ್ತ 45 ಆಗುತ್ತದೆ. ಈ ಎಲ್ಲ ಅಂಕೆಳನ್ನು ಗುಣಿಸಿದರೆ ಅದರ ಮೊತ್ತ ಎಷ್ಟು ಆಗುತ್ತದೆ..?



B ಈ ಚಿತ್ರ ಏನು?

ಈ ಚಿತ್ರದಲ್ಲಿರುವ ಚುಕ್ಕಿಗಳನ್ನು ಸೇರಿಸಿ ಬಣ್ಣ ಹಾಕಿ. ಆ ಚಿತ್ರ ಯಾವುದು ಗುರುತಿಸಿ.



C ಈ ಕೆಳಗಿನ ಎರಡು ಚಿತ್ರದಲ್ಲಿರುವ ವ್ಯತ್ಯಾಸ ಗುರುತಿಸಿ.





D

ಉದ್ಯಾನದಲ್ಲಿ ಕಳೆ ತೆಗೆಯುವ ನಾಲ್ಕು ಮಂದಿ 400 ಮೀಟರ್ ಜಾಗದ ಹುಲ್ಲನ್ನು ನಾಲ್ಕು ಗಂಟೆಗಳಲ್ಲಿ ಕ್ಲೀನ್ ಮಾಡುವರು. 800 ಮೀಟರ್ ಜಾಗದ ಹುಲ್ಲನ್ನು 8 ಮಂದಿ ಎಷ್ಟು ಗಂಟೆಗಳಲ್ಲಿ ಕ್ಲೀನ್ ಮಾಡಬಲ್ಲರು..?



ಉತ್ತರಗಳು

ಎ.) ಎರಡು ಅಂಕೆಗಳನ್ನು ಗುಣಿಸಿದರೆ ಉತ್ತರ ಒಂದೇ ಆಗುತ್ತದೆ.

ಬಿ.) ರಾಮಬಾಣ

ಸಿ.)

ಡಿ.) ಹಾಲು ಗಂಟೆಗಳು.



418 / © 2011 Amrita Bharati, Bharatiya Vidya Bhavan