ಕಾಮನ ಬಿಲ್ಲು

A

ಅದು ನೃತ್ಯ ಕ್ಲಾಸ್‌ನ ಮೊದಲ ದಿನ. ಎಲ್ಲ ಮಕ್ಕಳು ಪರಸ್ಪರ ಕೈಕುಲುಕುವ ಮೂಲಕ ಹೆಸರು ಹೇಳಿ ತಮ್ಮ ತಮ್ಮ ಪರಿಚಯ ಮಾಡಿಕೊಳ್ಳಿ ಎಂದರು ನೃತ್ಯ ಗುರು. ಆ ತರಗತಿಯಲ್ಲಿ ಒಟ್ಟು 14 ಮಕ್ಕಳಿದ್ದರು. ಹಾಗಾದರೆ ಒಟ್ಟು ಎಷ್ಟು 'ಶೇಕ್‌ಹ್ಯಾಂಡ್' ಮಾಡಿದ ಹಾಗಾಯಿತು..?

B

ಈ ಎರಡೂ ಚಿತ್ರಗಳ ನಡುವೆ ಏನೋ ಕೆಲವು ವ್ಯತ್ಯಾಸಗಳಿವೆ. ಅವು ಯಾವುದು ಗುರುತಿಸಿ ನೋಡೋಣ.

C

ಬುದ್ಧಿಗೆ ಗುದ್ದು

ಒಬ್ಬ ಹೋಟೆಲ್ ಮಾಲಿಕ 'ಎ' ಮತ್ತು 'ಬಿ' ಎಂಬ ಎರಡು ಕಾಫಿ ಪಾಟ್‌ಗಳಿಗೆ ಆರ್ಡರ್ ಮಾಡಿದ. ಪಾಟ್ 'ಎ'ಯಲ್ಲಿ 4 ಲೀಟರ್ ಕಾಫಿ ಹಿಡಿಸುತ್ತದೆ. ಪಾಟ್ 'ಬಿ'ಯಲ್ಲಿ ಎಷ್ಟು ಲೀಟರ್ ಕಾಫಿ ಹಿಡಿಸುತ್ತದೆ..?



D

ಸಂಖ್ಯಾ ಸ್ವಾರಸ್ಯ

ಇಲ್ಲಿ ಕೊಟ್ಟಿರುವ ವೃತ್ತಗಳಲ್ಲಿ ಒಂದರಿಂದ ಹನ್ನೊಂದರವರೆಗೆ ಅಂಕೆಗಳನ್ನು ಬರೆಯಿರಿ. ವೃತ್ತಗಳಲ್ಲಿ ಬರೆದ ಅಂಕೆ ಮತ್ತು ಅದರೊಂದಿಗಿನ ನೇರ ಗೆರೆಗಳ ಮೊತ್ತ ಒಂದೇ ಆಗಿರಬೇಕು.

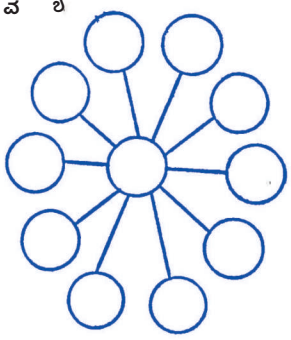

ಉತ್ತರಗಳು

ಅ.) ಸುಮಾರು 191 ಕಿಲೋಮೀಟರುಗಳು

ಬ.)



ಸಿ.) ಮೊದಲ 'ಬಿ'ಯನ್ನು ಬರೆದ ಕೂಡಲೇ ಕಾಫಿ ಹಿಡಿಸುತ್ತದೆ. ಎರಡನೆಯ ಮೊತ್ತ ಕಾಫಿ ಹಿಡಿಸುವ ಮೊದಲ ಜಾಗದಲ್ಲಿ ಅದೇರುವುದರಿಂದ ಅಂತೆಯೇ ಕಡೆಯ ಕಾಫಿ ಹಿಡಿಸುವ ಜಾಗದಲ್ಲಿ ಸಿಗುತ್ತದೆ.
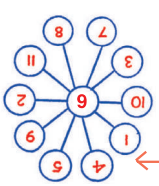
ಡಿ.)