ಕಾಮನ ಬಿಲ್ಲು

A ಪೆನ್ ಕದ್ದವರು ಯಾರು?

ಮಿತ, ಅತುಲ್, ಚಾರ್ಲಿ, ಸುಮನ್, ಟೋನಿ ಎಲ್ಲರೂ ನೀಡುವ ಹೇಳಿಕೆಗಳು ಸುಳ್ಳಾದರೆ ಪೆನ್ನನ್ನು ಕದ್ದವರು ಯಾರು? ಇವರೆಲ್ಲ ಏನು ಹೇಳ್ತಾರೆ ನೋಡೋಣ..

1. ಮಿತ: ಪೆನ್ ಕದ್ದದ್ದು ಸುಮನ್.
2. ಅತುಲ್: ಟೋನಿ, ಮಿತ ಮತ್ತು ನಾನು ಮೂರು ಮಂದಿ ಪೆನ್ ಕದ್ದಿಲ್ಲ.
3. ಚಾರ್ಲಿ: ನಾನು ಪೆನ್ ನೋಡಿಲ್ಲ
4. ಸುಮನ್: ಮಿತ ಪೆನ್ ಕದಿಯಲಿಲ್ಲ ಅಲ್ಲದೆ ಟೋನಿ, ಅತುಲ್ ಮತ್ತು ಚಾರ್ಲಿ ಅವರ ಬಳಿ ಪೆನ್ ಇಲ್ಲ.
5. ಟೋನಿ: ನಾನು ಪೆನ್ ನೋಡಿದ್ದೀನಿ; ಅದು ಅತುಲ್ ಬಳಿ ಇದೆ.

B ಇಲಿಗೆ ದಾರಿ ತೋರಿಸಿ

ಇಲ್ಲಿರುವ ಚೀಸ್ ಇಲಿಗೆ ಬೇಕಾಗಿದೆ. ಹೋಗುವುದು ಹೇಗೆ? ದಾರಿ ಹೇಳಿ..



C ಗುಂಪಿಗೆ ಸೇರದ್ದನ್ನು ಹೊರ ಹಾಕಿ



D ಈ ನಾಲ್ಕರ ನಂತರ ಯಾವುದು?

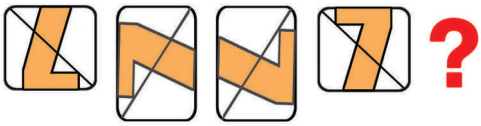

ಈ ಕೆಳಗಿನ ಚಿತ್ರದಿಂದ ಹುಡುಕಿ ಸರಿಯಾಗಿ ಹೇಳಿ.

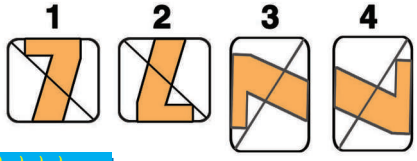

ಉತ್ತರಗಳು

ಎ.) ಹೊಸದಕ್ಕೆ ಸಾಮಾನ್ಯ ಹೊಸ ಕಡಿಯಲ್ಪಟ್ಟಿದೆ. ಎರಡನೆಯದು ಮಾತ್ರ, ಉಳಿದವು ಮಾತ್ರ ಅಕ್ಷರ ಹೊಸ ಕ್ರಿಯೆಯಾದುದು. ಮೂರನೆಯದು ಮಾತ್ರ ಉಳಿದವು, ಅಕ್ಷರ ಆಕಾರ ಚೌಕ ಕ್ರಿಯೆಯಾದುದು ಎಂಬ ಸಂಕೇತ. ಬಹಳೆ ಹೊಸದರ ಹೊಳೆಗಳು ಮಾತ್ರ ಸಾಮಾನ್ಯ ಸಾಮ್ಯತೆಯನ್ನು ತೋರಿದವು.

ಬಿ.) ಒಂದನೇ ಇಲಿ ಸರಿಯಾದ ಉತ್ತರ. ಇದರಲ್ಲಿ ಮಾತ್ರ, ಉಳಿದವು ಮಾತ್ರ ಕ್ರಿಯೆಯಾದುದು. ಮೂರನೆಯದು ಮಾತ್ರ ಕ್ರಿಯೆಯಾದುದು ಎಂಬ ಸಂಕೇತ. ಮಾತ್ರ ಉಳಿದವು ಅಕ್ಷರ ಆಕಾರ ಕ್ರಿಯೆಯಾದುದು. ಮೂರನೆಯದು ಮಾತ್ರ ಕ್ರಿಯೆಯಾದುದು ಎಂಬ ಸಂಕೇತ. ಬಹಳೆ ಹೊಸದರ ಹೊಳೆಗಳು ಮಾತ್ರ ಸಾಮ್ಯತೆಯನ್ನು ತೋರಿದವು.

ಸಿ.) ೨ ಕ್ರಾಂತ ಎಕ್ಷರ, ೩ ಕ್ರಾಂತ ಮೃಗಗಳು.. ಮೊದಲ ಚಿಹ್ನೆದಲ್ಲಿ ಉಳಿದಿರುವ ಎಕ್ಷರಗಳ ಮತ್ತೆ ಸ್ಥಾನ ಬದಲಾಯಿಸುವುದು ಚಿಹ್ನೆ, ಬಣ್ಣ, ಬಣ್ಣ ಕ್ರಿಯೆ ಚಿಹ್ನೆ ಚಿಹ್ನೆ. ಮೊದಲಿಗೆ ಅದು ನಿಂಬಿಯಂದ ಹೊರಗೆ.